En güzel yarınlar için 15 ÖZGÜN DENEME

ORTAK AKIL

LGS TÜRKÇE DENEMELERİ

PİSA | **GÖRSEL YORUMLAMA** | ÇOKLU KAZANIM
ÖRNEK LGS SORULARIYLA BENZER | GRAFİK YORUMLAMA

2. Baskı



YENİ NESİL SORULAR

Çek Kopar Denemeler

8. SINIF

545 404 6412
Eyüp HAYTA / Ümit ŞEN

Eyüp Hayat Akademi

Adı: .....
Soyadı: .....

A++

GARANTİ BELGESİ

1. Garanti süresi, ürünün teslim edilme tarihinden itibaren başlar ve iki yıldır.
2. Satıcı/bayi tarafından satış tarihi yazılarak kaşelenip imzalanmayan garanti belgeleri geçersizdir.
3. Ürünün, garanti süresi içinde gerek malzeme ve işçilik gerekse montaj hatalarından dolayı arızalanması hâlinde hiçbir ücret talep edilmeksizin tamiri yapılacaktır.
4. Sarf malzemeleri ve kullanıma bağlı olarak eskiyen, yıpranan, kirlenme nedeniyle işlevini yitiren parçalar ve bu parçaların işlevlerini yitirmesi nedeniyle oluşan hasar ve arızalar, garanti kapsamı dışındadır.

KULLANIM KILAVUZU

1. Bilgisayarınız için hasarlı güç kabloları, priz veya fişleri kullanmayınız.
2. Bilgisayarınızı sıvı temasından koruyunuz.
3. Herhangi bir arıza meydana gelirse bilgisayara yetkili kişi dışında kimseye müdahale ettirmeyiniz.
4. Bilgisayarınıza orijinal programlar yükleyiniz ve güvenilir olmayan internet sitelerinden yazılım indirmeyiniz.

1. Dört farklı müşteri, bozulan bilgisayarlarının garanti kapsamında tamir edilmesini istemektedir. Bilgisayarı aldıkları firmaya bu amaçla bir dilekçe yazmışlardır.

Buna göre aşağıdaki taleplerden hangisinin firmadan olumlu cevap alması beklenir?

A) Bir buçuk yıl önce sizden aldığım bilgisayarım çocuklar oynarken yere düştü. Ondan sonra bilgisayar bir türlü çalışmadı. Ürünün firmanız tarafından tamir edilmesini istiyorum.

B) İnternet sitenizden iki buçuk yıl önce aldığım bilgisayar şarj almamaktadır. Söküp bakması için lisede bilgisayar bölümünde okuyan yeğenime verdiğimde şarj yerinin oksitlendiğini söyledi. Cihazımın garanti kapsamında tamir edilmesini istiyorum.

C) Geçen yıl sizden aldığım bilgisayarın şarj işareti tam dolu göstermesine rağmen kablosunu fişten çektiğim anda kapanıyor. Faturasıyla birlikte size gönderiyorum. Ürünün değiştirilmesini ya da ücretsiz değiştirilmesini talep ediyorum.

D) Firmanızdan altı ay önce aldığım bilgisayar kullanım kılavuzuna uygun kullandığım hâlde arızalandı. Faturasını kaybettiğim için size kimlik fotokopimi gönderiyorum. Ürünün tamir edilmesini istiyorum.



Sayıları giderek azalsa da Anadolu'nun o tatlı bilgeleri günlük işlerini ve bahçe işlerini hala Ay'ın rehberliğinde yapıyorlar. Çünkü Ay'ı rehber edindiklerinde yani ekim dikim zamanlarını, hasat zamanını, budama ve ilaçlama zamanını belirlerken Ay takvimini kullandıklarında hem leziz ve şifa dolu ürünler alıyorlar hem de mis kokulu, bakımlı çiçekler yetiştiriyorlar. Üstelik bu bitkiler yetişirken de kendilerine sorun çıkarmıyor, güçlü ve sağlıklı olarak gelişiyorlar. Başka bir deyişle bağışıklıkları çok güçlü oluyor. Kim böyle bir mucizevi desteğe sarılmaz ki? Yukarıdaki tabloda ekim, dikim ve toplama/hasat için doğru zamanları görüyoruz.

Yeni Ay

Binlerce yıldır süregelen deneyimlere dayanarak bu dönemde tohum ekmiyor, fidan dikmiyor bu öğretiyi kullananlar. Çünkü görüyorlar ki bu dönemde ekilip dikilen bitkiler ya hastalanıyor ya da sağlıksız büyüyüp az ve kalitesiz ürün veriyor. Bir hafta bekliyorlar ki Ay biraz eskisin. Toplama işleminden de uzak duruyorlar. Özellikle şifa amaçlı kullandıkları bitkilerin amacına ulaşmadığını fark ediyorlar. Böylelikle anlıyorlar ki meyve ve sebzelerin de bu dönemde besin değeri düşüyor. Daha sağlıklı yaşamak için yeni ayda toplama işini bırakıyorlar. Aşılama ve budama da yapmıyorlar. Çünkü yapılan aşı tutmuyor ve budanan ağaç kötüleşiyor. Fakat yeni ayda budanan hasta ağaçların, sağlıklı olanların aksine, iyileşip yeniden güçlendiğini görüyorlar ve hasta ağaçlarını zirai ilaçla değil, bu yolla tedavi ediyorlar.

Dolunay

İhtiyaç duydukları şifalı bitkileri dolunayda topluyorlar. Özellikle de köklerini kullanacaklarsa dolunay gecelerinde çıkartıyorlar topraktan. Hemen ardından gelen günlerde kurutma işlemini yapıyorlar ki uzun süre değerini yitirmeden saklayabilsinler. Toprağı gübreleme işini dolunayda yaptıklarında çok iyi sonuç alıyorlar. Bu dönemde bitkilerin dallarından bir tane bile koparmıyorlar. Bu, bitkiyi öldürüyor.

2. I. Ay ● şeklinde olduğunda tohum ekmemeliyiz.

II. ◌ 'da aşı ya da budama yapıldığında ağaçlar hastalanır.

III Ay ◗ şeklinde olduğunda ürünler toplanmaz.

IV. ◌ 'da bitkilerden koparıldığında bitki zarar görür.

V. ◌ 'da şifalı bitkiler toplanır ● 'da bitkilerin besin değeri düşer.

Verilen bilgilerden hareketle aşağıdakilerden hangisine ulaşılamaz?

A) I - IV B) II - III C) II - V D) IV - V

3.



Verilen Ay takvimine uymaya çalışan Çiftçi Mustafa, yetiştirdiği ceviz ağacının yaprağının bu şekilde olduğunu gördüğüne göre seçeneklerden hangisini yapmış olabilir?

A) Cevizleri toplama işini dolunayda yapmıştır.

B) Ağacın yapraklarından yeni ayda koparmıştır.

C) Ağacı budama işini yeni ayda yapmıştır.

D) Toprağı gübreleme işini yeni ayda yapmıştır

4. **PORSUK AĞACI**

Sıkça karşımıza çıkabilecek türlerden biri değildir porsuk ağacı. Doğayı yakından tanıyan gözler, ormanda yürürken koca gövdeli bir porsuk ağacına rastlarlarsa, tarihi bir el yazması kitap bulmuşçasına sevinir, şanslı sayarlar kendilerini. Bu ağaçların bulunduğu bir yamacın karşısına geçip gözlem yaparsanız, yazın geniş yapraklı ve iğne yapraklı ormanların içerisinde yeşilin en koyu tonuyla donanmış heybetli gövdeleriyle "ben buradayım" dediklerini görürsünüz. Kışın ise yapraklı ağaçlar yapraklarını döker dökmez, antik dev heykeller gibi tüm peyzaja hâkim olurlar. Orman içerisinde gezerken karşılaşılan manzara daha farklıdır: Kızılımsı kahverengi ince pullu kabuklu bodur dev bir gövde, koyu yeşil yapraklar, kıpkırmızı renkli meyveler... Porsuk ağacı geçmişte ormanların önemli bir bileşeniyken, insanın baltası en büyük düşmanı olmuş ve günümüzde artık tek tek bireyler veya küçük gruplar halinde varlığını sürdürür duruma gelmiştir. Aslında doğası gereği kanaatkâr bir ağaç türü değildir. Karasal iklimin hâkim olduğu yörelerden hoşlanmadığı gibi, düşük sıcaklıklara ve donlara karşı da duyarlıdır. Okyanus ikliminin bir ağacı olup, doğal olarak nemin yüksek olduğu, gölgeli bakıları tercih ederler. Türkiye'de yayılışının ağırlığı Kuzeybatı Anadolu'da ve Toroslardadır.

Yukarıdaki metinde yer alan özelliklerin açıklaması hangi seçenekte verilmemiştir?

A) Herhangi bir şeyin niteliğini veya özelliğini olduğundan fazla büyüterek ya da küçülterek yapılan söz sanatına örnek vardır.

B) İnsan dışındaki canlı ve cansız varlıklara insana ait özellikler verilerek oluşturulan söz sanatına örnek vardır.

C) İnsan dışındaki varlıkları konuşturma, onların ağzından söz söyleme yoluyla oluşturulan söz sanatına örnek vardır.

D) Aralarında çeşitli yönlerden ilgi bulunan iki varlıktan zayıf olanın güçlü olana benzetilmesiyle meydana gelen söz sanatı vardır.

5 ve 6. soruları aşağıdaki metne göre cevaplayınız.



Stanford Üniversitesi Nörobiyoloğu Daniel Abrams ve ekibi MR görüntüleme yöntemleriyle anne sesinin çocuklar üzerindeki etkilerini araştırdılar.

Araştırmaya yaşları 7-12 arasında değişen ve biyolojik anneleri tarafından yetiştirilen 24 çocuk katıldı.

Çocuklar, beyinleri görüntülenirken anneleri veya tanımadıkları bir kadın tarafından söylenen ve anlamı olmayan sözler dinlediler. %97'nin üzerinde bir başarıyla annelerinin seslerini bir saniye içerisinde ayırt edebildiler.

Araştırmacıların hipotezine göre anne sesinin "ses ayırt edici beyin bölgeleri" adını verdikleri bölgelerde tanımadıkları kadın seslerine göre daha fazla etkinlik gösteriyor.

Anne sesinin sadece ayırt edici beyin bölgelerini uyarmakla kalmadığı beynin diğer bölgelerini de etkilediği görüldü. Sonuç olarak şunu söylemek mümkün ki, anne sesi çocuğu için sinirsel parmak izi işlevi görüyor.

Anne sesinin özel sinirsel şablonları olduğu bilimsel olarak da böylece kanıtlanmış oldu. Uyku öncesi dinlediğimiz masallar, yapılan konuşmalar hatta anne karnında işittiğimiz sesler bizi biz yapan seslerdir.

Anne sesi, çocuğun duygusal gelişimini ve sosyal iletişim becerilerini yüksek ölçüde etkiliyor

5. **Verilen metinde işaretlenmiş bölümle ilgili olarak,**

I. Cümlede açık olarak söylenmediği halde, cümlenin anlamından veya cümledeki bir ifadeden çıkarılabilen anlam özelliği vardır.

II. Ortaya konulan bir düşünceyi somut kılmak ve onun kolay anlaşılmasını sağlamak için kullanılan ifadeler yoktur.

III. Konunun aydınlatılması maksadıyla farklı kişilerin düşüncelerinden ve sözlerinden yararlanılmıştır.

IV. Bir önceki cümleyle benzer bir yargı ve açıklamayı içeren bir anlatım yapacağımızı belirtmek için kullanılan bir ifade vardır.

V. Doğrulu ya da yanlışlığı kişiden kişiye değişmeyen, doğruluğu ya da yanlışlığı kanıtlanabilen cümleler vardır.

hangilerine <u>ulaşılamaz</u>?

A) I-IV B) II-V C) II-III D) III-V

6. **Metinde yer alan altı çizili sözcüğün eş anlamını TDK'nin www.tdk.gov.tr adlı sitesine yazan Cansel aşağıda verilen hangi görüntüyle karşılaşır?**

A)


B)


C)
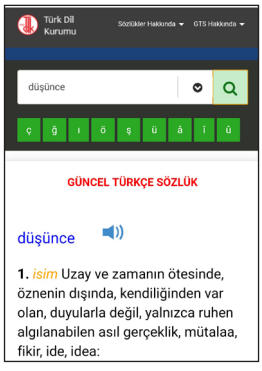

D)


7, 8 ve 9. soruları aşağıdaki metne göre cevaplayınız.



Gün geçmiyor ki dünyada yeni bir çevre felaketi yaşanmasın. Daha birkaç ay önce, Meksika Körfezi'ndeki bir İngiliz petrol şirketinin platformunda yaşanan çökme dolayısıyla, bölgedeki doğal hayat ciddi derecede zarar görmüştü. Bu olayın çevrede yarattığı yıkımın bilançosu daha net olarak belirlenmeden, Macaristan'daki bir alüminyum fabrikasının atık rezervuarının duvarının çökmesi üzerine çevreye sızan kimyasal çamur, temas ettiği bölgeleri yaşanmaz hale getirdi.

Hal böyle olunca, kimi çevreci örgütlerin söylediklerinin daha ciddiye alınması gerektiği ortaya çıkıyor. Yıllarca söylenen ozon tabakasındaki yırtık, gözle görülmediği için zararsız sanılıyordu, oysa mevsimleri eskisi gibi yaşayamamamıza sebep olan küresel ısınmanın temel sebeplerinden biri.

Kimi büyük şehirlerde golf sahası veya benzeri alanlar haline getirilmesi için kesilen ağaçlar, şehrin akciğerlerinin tüketilmesi anlamına geliyor. Eriyen buzullar, nesli tükenen hayvanlar, değişen iklim ve daha pek çok çevre felaketini sıraladığımızda, önümüzdeki senelerin çok da ferah geçmeyeceğini anlayabiliriz. Onun için artık tüm dünyanın bir an evvel bilinçlenmesinde fayda var. Yetişkinlerin aktif olarak kendilerine düşeni yapmalarının yanında en önemli görevleri, çocukları konuyla ilgili bilinçlendirmek olacaktır. Böylece en azından, gelecek yıllar için bir umut doğabilsin.

7. **Bu parçanın dil ve anlatımıyla ilgili aşağıdakilerden hangisi yanlıştır?**

A) Geçiş ve bağlantı ifadeleri kullanılmıştır.

B) Örneklemeye yer verilmiştir.

C) Deyimlerle anlatıma akıcılık katılmıştır.

D) Devrik cümlelere yer verilmiştir.

8. **Bu metinde ilgili olarak aşağıdakilerden hangisine ulaşılamaz?**

A) Olumsuz iklim koşulları ve çevre yıkımlarından dolayı önümüzdeki yıllar rahat geçmeyecektir.

B) Küresel ısınmanın temel sebeplerinden biri ozon tabakasının yırtılmaya başlamasıdır.

C) Yetişkinlerin çevre felaketleri karşısında en öncelikli görevi çocukları bilinçlendirmektir.

D) Çevre ile ilgili araştırma-inceleme yapan kuruluşların bu sonuçları daha çok önemsenmelidir.

9. **Metinde altı çizili cümle için aşağıdakilerden hangisi doğrudur?**

A) Koşul anlamı vardır.

B) Neden-sonuç cümlesidir.

C) Karşılaştırma yapılmıştır.

D) Amaç-sonuç cümlesidir.



İğneada Longoz Ormanları Millî Parkı

Kırklareli kent sınırları içinde yer alır. Burada longoz ya da diğer adıyla subasar ormanları bulunur. Bunlar yağış miktarının yüksek olduğu kış ve ilkbahar mevsimlerinde tabanı sularla kaplanan ormanlardır. Bu alan Kaçkar Milli Parkı'ndan sonra millî park ilan edilmiştir. Millî parkta pek çok göl, sazlık alan ve longoz ormanı bulunur. Burada doğa yürüyüşü, yaban hayat ve kuş gözlemciliği gibi etkinlikler yapılabilir.

Kuş Cenneti Millî Parkı

Balıkesir kent sınırları içinde yer alır. Göreme Milli Parkından hemen önce açılmıştır. Kuş Cenneti Millî Parkı'nda tepeli pelikan, çeltikçi, gece balıkçılı, kaşıkçı, karabatak, flamingo, sakarmeke ve bıyıklı sumru gibi birçok kuş türü görülür. Burada her yıl yüz binlerce kuş yaşar, ürer, göç döneminde konaklar ya da kışı geçirir. Bu parkta 17,5 metre yüksekliğinde, kırk kişilik bir kuş gözetleme kulesi vardır.

Kaçkar Dağları Millî Parkı

Rize ve Artvin kent sınırları içinde yer alır. Daha önce açılan en az bir milli park vardır. Kaçkar Dağları 3.500 metreyi aşan birçok zirvesiyle Karadeniz Bölgesi'nin en yüksek dağlarıdır. Ülkemizin en yağışlı kesiminde yer alan bu park bitki örtüsü açısında çok zengindir. Ayrıca Fırtına Deresi, Hemşin Deresi gibi aslında bir ırmak büyüklüğünde olan akarsulara sahiptir. Dört mevsim karlı zirveleri, buzulları, buzul gölleri, ormanları, çayırları vardır. Dağcılık, rafting, doğa yürüyüşü sporları için uygundur.

Göreme Tarihi Millî Parkı

Nevşehir kent sınırları içinde yer alır. Kaçkar Milli Parkı'ndan önce açılmıştır. Erciyes ve Hasan Dağı'ndan püsküren lavların soğumasıyla oluşmuş kayaçların su ve rüzgârın etkisiyle aşınması sonucu jeolojik yapılar oluşmuş, bu yapılar tarih boyunca çeşitli uygarlıklar tarafından yerleşim ve tarım amaçlı kullanılmıştır. Burada mağaracılık, oryantiring, doğa yürüyüşü sporları yapılabilir.

Ağrı Dağı Milli Parkı

Ağrı ve Iğdır kent sınırları içinde yer alır. Kendisinden sonra açılan sadece bir milli park vardır. Ağrı Dağı 5.137 metre yüksekliğiyle ülkemizin en yüksek dağıdır. Bu dağın zirvesinde ülkemizin en büyük buzulu da bulunur. Bu özelliklerinden ötürü Ağrı Dağı ve çevresi millî park ilan edilmiştir. Burası doğa yürüyüşü ve dağcılık için uygundur.



10. 1. sırada bulunan milli park alanında her yıl yüz binlerce kuş yaşar, ürer, göç döneminde konaklar ya da kışı geçirir. Burada kuş gözetleme kulesi vardır.
2. sırada bulunan milli park içerisinde bulunan yapılar çeşitli uygarlıklar tarafından tarım ve yerleşim alanı olarak kullanılmıştır. Burada mağaracılık sporları için uygundur.
3. sırada bulunan milli park alanında yağış miktarının yüksek olduğu kış ve ilkbahar mevsimlerinde tabanı sularla kaplanan ormanlar yer alır. Burası yaban hayatı gözlemlemek için uygundur.
4. sırada bulunan milli park alanında ülkemizin en yüksek dağı ve bu dağın üzerinde en yüksek buzulu da yer almaktadır. Burası dağcılık için uygundur.
5. sırada bulunan milli park alanının her mevsim karlı zirveleri, buzulları, buzul gölleri, ormanları, çayırları vardır. Burası rafting için uygundur.

Verilen bilgileri elindeki kağıtlara not alan Özge, milli parkların açılış tarihlerinin sırasını yanlış yazdığını fark etmiştir. Özge hangi kağıtların yerlerini değiştirirse milli parkların açılış tarihlerini doğru sıralamış olur?

A) 2 ve 4. B) 3 ve 5. C) 1 ve 3. D) 2 ve 5.

11. Çocukluk denildi mi akla önce sevgi gelir, sevecenlik gelir. Sevgi olmadan, sevecenlik olmadan çocuk düşünülemez. Sevgi, sevecenlik onun özsuyudur. Anne sütünden daha önemlidir sevgi. Şu var ki sevgiyi vermede istikrarlı olunmalı; çocuk, el bebek gül bebek büyütülmemelidir. Büyütülürse duygusal şiddet altına alınıp soluksuz bırakılmış olur, bu da fiziksel şiddet kadar örseler çocuğu. Kişilik gelişimini yaralar, özgüvenini yitirmesine neden olur. Bu nedenle çocuk, ne saksıdaki çiçek yerine konulmalı, ne de örselenmelere açık tutulmalıdır. Buysa birikim ister, deneyim ister, ustalık ister, sorumluluk duyan çağdaş bir kafa ister. Her şeyden önce sevgi dolu bir yürek ister. Sevgisiz sevgi verilmez. Verme bizim yetişme koşullarımıza ve dünyaya bakışımıza bağlıdır.

Bu metnin <u>asıl</u> anlatmak istediği aşağıdakilerden hangisidir?

A) Çocuk yetiştirmek belli bir deneyimi gerektirir.

B) Sevgi vermek için önce sevmeyi öğrenmek gerekir.

C) Çocuklara sevgi dengeli bir şekilde verilmelidir.

D) Sevgi çocuklar için en önemli duygulardan biridir.

12.
- Bir okul açan, bir hapishane kapatır.
- En verimli yağmur alın teridir.
- İyiliğe gücün yetmezse, kötülük etme.

Aşağıdaki cümlelerden hangisi bu özdeyişlerin herhangi biriyle anlamca <u>ilişkilendirilemez</u>?

A) İnsanlar eğitim gördükçe toplumdaki suç oranı azalır.

B) İnsanın kendi emeğinden daha kıymetli hiçbir şey yoktur.

C) İnsanlara yararın yoksa en azından zararın dokunmasın.

D) İnsanlar çalışıp çabalayarak bir yerlere ulaşabilirler.

13. Resfebe bir kelimenin farklı kelimeler, sözcük öbekleri ya da resimlerle anlatılması üzerine tasarlanmış bir oyundur. Resfebede amaç görsel olanı yorumlayarak birleştirme ve bunun sonucunda da anlamlı bir sözcük ya da sözcük grubu ortaya çıkarmaktır. Resfebe bilmeceleri ne matematiğe, ne de ağır bir genel kültür ve kelime bilgisine ihtiyaç duyar, biraz mantık ve hayal gücü ile çözülebilir.

Resfebe; sözcük, harf, sayı ve resimlerin harmanlanmasıyla hazırlanır. Üst düzey düşünmenin yanı sıra öğrencilere farklı bakış açısı kazandırdığı için de öğrenciler için oldukça önemlidir. Resfebe hazırlanırken çok kullanılan yöntemlerden bazıları şöyledir:

a) Harf ya da sayılar kullanılabilir:
1= Bir, 2= iki. Örnek: 12m = Birikim

b) Bazı kelimeler için görseller ters çevrilebilir:
Örneğin: Ve hecesi için "ev" görseli ters çevrilebilir.

c) Matematik sembolleri kullanılabilir:
Örnek; π = Pİ hecesi , - : Eksi, +: Artı gibi

d) Hecelerin konumlarından, boşluklarından, duruşlarından faydalanılabilir:
Örneğin: "Okyanus" kelimesi için, ok işareti ve yan yazılmış "us" hecesi kullanılabilir.

Aşağıdaki resfebeleri grupladığımızda hangisinin/hangilerinin, yukarıda verilen maddelerden hareketle en az ikisiyle oluşturulduğunu söyleyemeyiz?

I. AR D 

II.   P

III. 

IV.  Aπ

V.  N SI

A) I-II B) Sadece III C) I-IV D) III-V

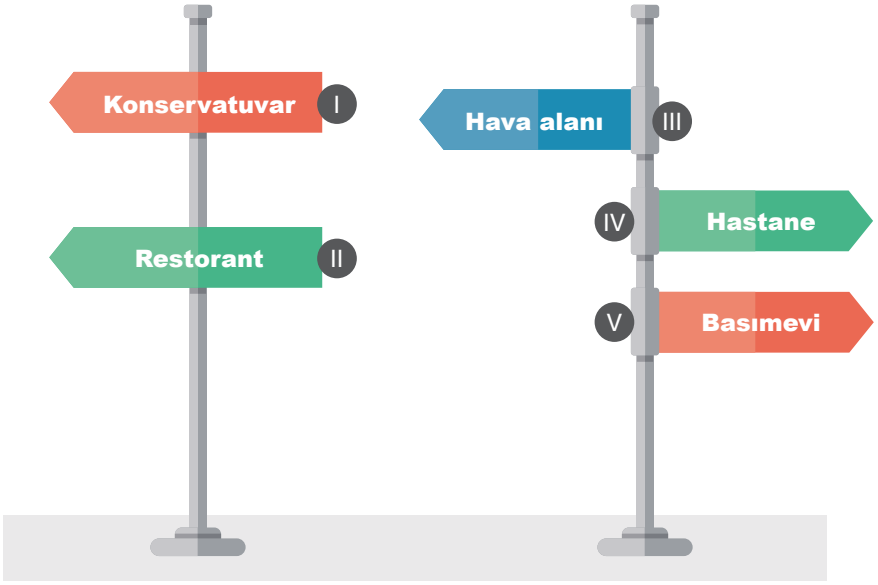

14. **Yukarıdaki tabelalarda yer alan kelimelerin hangilerinin yazımı yanlıştır?**

A) I-III B) II-IV C) I-V D) II-III

15.



Buna göre,

I. Çorba her damak tadına hitap eden evrensel bir lezzet olarak mutfaklarda özel bir yere sahiptir.(Fiilimsili cümle)

II. Bugüne kadar pek çok ödül aldım, her ödül benim için birer gurur kaynağı olmuştur. (Bağlacı olan cümle)

III. Anadolu'da yemekten sonra aileler, akrabalar, dostlar bir evde kadınlı erkekli toplanırlardı.(Tek yüklemli cümle)

IV. Sinema filmi ile belgesel film aslında birbirinden çok farklı özellikler taşımıyor ama ben ikisini birbirinden ayırıyorum.(Bağlacı olan cümle)

V. Eski Mısırlılar tarafından dünyanın ilk meyvesi kabul edilen nar, sahip olduğu eşsiz özellikleriyle tanınır.(Sıralı cümle)

verilen cümlelerin hangilerinin yapı özelliği yay ayraç içinde yanlış verilmiştir?

A) I-III B) II-V C) II-III D) IV-V

16.



Buna göre,

I. 1970 yılından günümüze kadar karasal türlerde deniz türlerine göre daha çok kayıp yaşanmıştır.

II. Biyolojik ürünlere en çok katkı sağlayan arıların %40'ı yok olmuştur.

III. Balıkların üçte biri tehlike altındadır.

IV. Değerlendirilen bitki türlerinin yaklaşık üçte ikisi yok olma tehlikesi altındadır.

V. Şehirleşmenin artması biyolojik çeşitliliği olumsuz etkileyen etmenlerdendir.

verilenlerden hangilerine ulaşılamaz?

A) I-II B) II-III C) III-IV D) IV-V

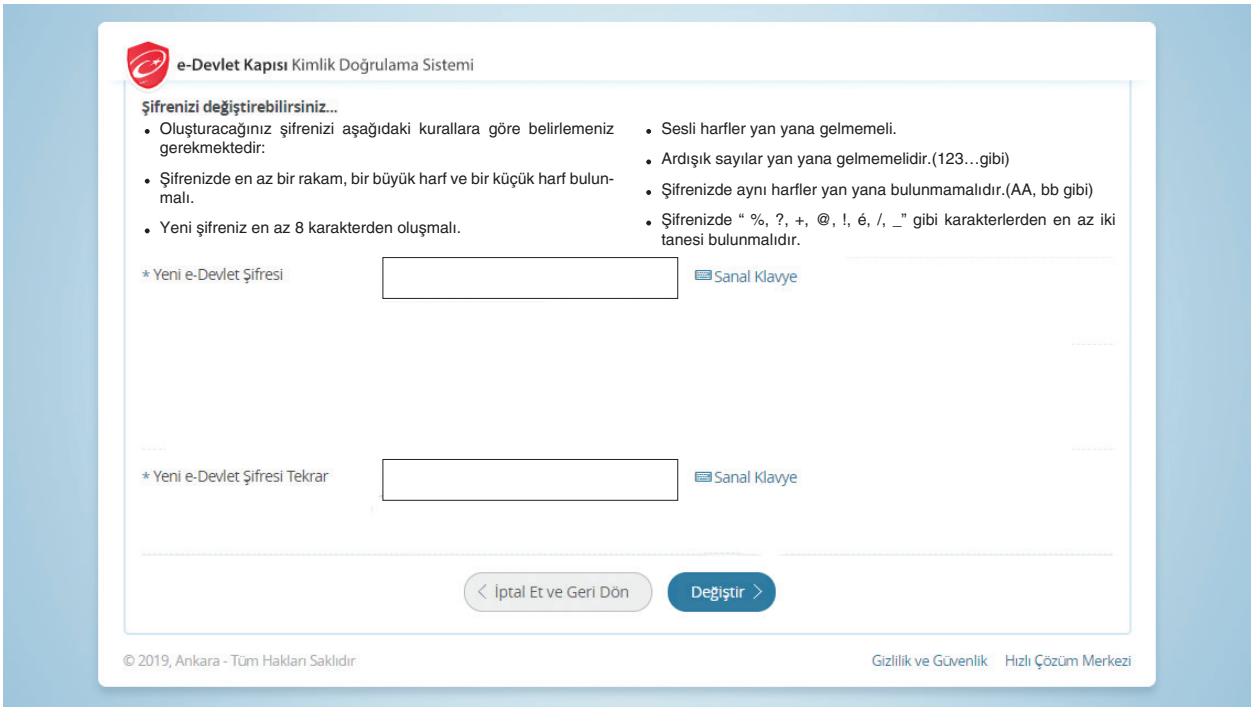

17. **Yukarıda verilen şifre değiştirme kurallarına göre yeni şifre oluşturmak isteyen Sencer, hangi şifreyi oluşturursa şifre değişikliği kabul edilir?**

A) e@+t?üvC B) AnOu2?v/y C) 49gée68_E D) o2!1cuı%A

18. Selçuk, Aras, Uğur, Muzaffer, Gülru, Melis adlı altı arkadaş 8/A sınıfta okumaktadır. Bu kişilerin sınıftaki yerlerinin konumlarıyla ilgili şunlar bilinmektedir:

- Selçuk'un yeri Melis'in yerinin solundadır.
- Aras'ın yeri, Gülru'nun yerinin solundadır.
- Muzaffer'in yeri, Uğur'un yerinin solundadır.
- Gülru'nun yeri, Muzaffer'in yerinin arka sağında, Melis'in yerinin önündedir.

Aşağıdakilerin hangisinde birlikte verilen kişilerin yerleri en önde yer almaktadır?

A) Muzaffer ile Uğur

B) Aras ile Gülru

C) Aras ile Muzaffer

D) Selçuk ile Melis

19. Aşağıdaki şekillerde numaralanmış yerlere çevresindeki sözcük ya da sözcük gruplarının çağrıştırdığı en uygun kavram yazılacaktır.

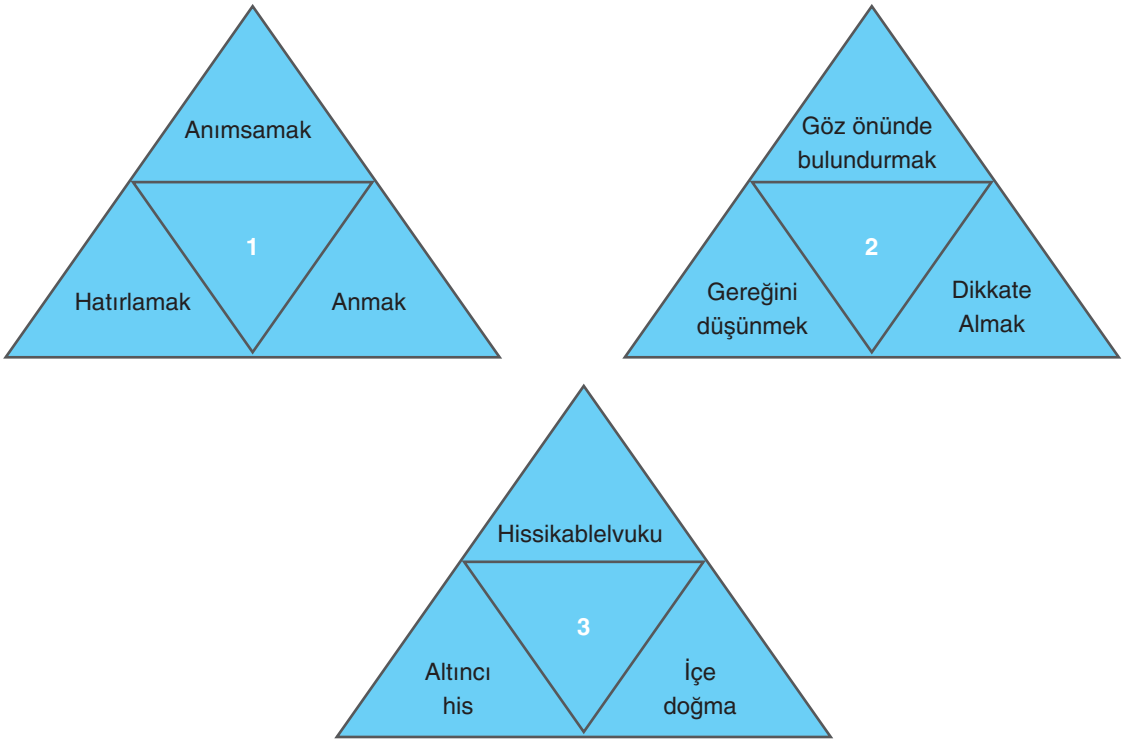

Buna göre, numaralanmış yerlere getirilebilecek en uygun kavramlar aşağıdakilerden hangisinde sırasıyla doğru olarak verilmiştir?

	1	2	3
A)	Önsezi	Hesaba katmak	Yad etmek
B)	Hesaba katmak	Yad etmek	Önsezi
C)	Yad etmek	Önsezi	Hesaba katmak
D)	Yad etmek	Hesaba katmak	Önsezi

20. Geçişli fiillere "-t, -r, -tır" ekleri getirilerek bunların geçişlilik dereceleri arttırılabilir. Bu tür fiillerde genellikle "işi başkasına yaptırma" anlamı vardır.

Örnek: Babam çantaları bize taşıttı.

Bu cümlede " taşı-"geçişli fiiline "-t" eki gelmiştir. Baba, taşıma işini başkasına yaptırmıştır.

Aşağıdaki cümlelerin hangisinde bu açıklamanın örneği bulunmamaktadır?

A) Anlattığı Nasrettin Hoca fıkrasıyla yine hepimizi güldürmüştü

B) Öğrencilerime sene başından beri onlarca kitap okuttum.

C) Ortak Akıl denemelerini baskıya vermeden bize kontrol ettirdi.

D) Öğretmenimiz sınavda çıkabilecek yerlerin altını tek tek çizdirdi.