7. SINIF

12 ÖZGÜN DENEME

ORTAK AKIL

Türkçe Denemeleri

PİSA | GRAFİK - GÖRSEL YORUMLAMA

MUHAKEME GÜCÜNÜ GELİŞTİRME | KAZANIMLARA BİRE BİR UYGUNLUK

ANALİTİK VE ELEŞTİREL DÜŞÜNME | BECERİ TEMELLİ SORULAR



Yeni Nesil Sorular

Çek Kopar Denemeler

MEM-Bursluluk Sınavlarına Uygun

MEB Örnek Sorularıyla Tam Uyumlu

Hayta Akademi

Eyüp HAYTA
Ümit ŞEN

Bizimle İletişime Geçin!

0545 404 64 12



1, 2 ve 3. soruları aşağıdaki metne göre cevaplayınız.

ABD'de bilim adamları, laboratuvarda, bazı görme bozukluklarının tedavisine yönelik kök hücrelerden insan retinası üretti. ABD'de Johns Hopkins Üniversitesinden iki araştırmacı 9 ay süren çalışmada laboratuvarda binlerce kök hücreyi bazı kimyasallarla besleyerek, bu hücrelerin göz küresinin arka duvarını kaplayan ve görme hücrelerinden oluşan ağ tabakası retinaya dönüşmelerini sağladı. Araştırmacı Kiara Eldred, 9 aylık çalışmaları sonucunda ışığa tepki veren, tenis topunun yarısı şeklinde ve çapı da yaklaşık iki milimetre olan minik retinalar ürettiklerini kaydetti. Laboratuvarda büyüyen hücrelerin aynı bir bebeğin gelişiminde olduğu gibi benzer bir süreci takip ettiğini ifade eden Eldred, laboratuvarda büyük bir özenle büyütülen retinaların biyolojik olarak insan gözündekinin aynısı olduğunu belirtti. Diğer araştırmacı biyolog Robert Johnston ise amaçlarının nakledilebilecek insan retinası geliştirmek ve retinada görme kaybına neden olan kusurlu bölgeleri tedavi etmek olduğunu kaydetti. Johnston, bu çalışmadaki diğer bir amacın da bu geliştirilen retina organoidlerini kullanarak glokom ve sarı nokta hastalığını daha iyi anlamanın olduğunu vurguladı. Araştırmanın detayları Science dergisinde yayımlandı.

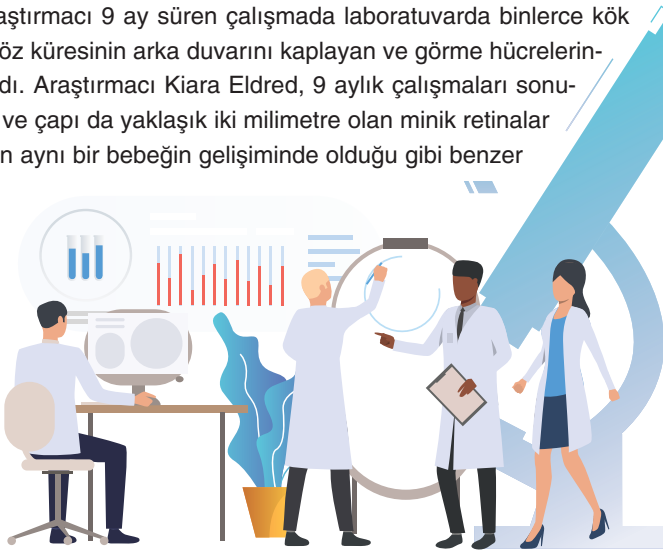

1. **Bu metinden hareketle aşağıdakilerden hangisine ulaşılamaz?**

A) Retina ile ilgili yapılan çalışmalar bir yıldan az sürmüştür.

B) Laboratuvarda büyütülen retinalar biyolojik olarak insan gözünden biraz farklıdır.

C) Çalışmanın amaçlarından biri de gözdeki kusurlu bölgeleri tedavi etmektir.

D) Çalışmanın ve araştırmanın ayrıntıları bir dergide yayımlandı.

2. **Metindeki altı çizili sözcüğün cümleye kattığı anlam aşağıdakilerin hangisinde vardır?**

A) Ördüğü duvarın iyi olması için elinden geldiğince çaba sarf etti.

B) Bu yolda arabayı kullanırken çok dikkatli olmalısın.

C) Bu tablonun güzel olmasını istiyorsan kaliteli malzeme kullanmalısın.

D) Bu eseri gelişigüzel yazdığı için eser başarılı olmamış.

3. **Bu metnin dil ve anlatımı için aşağıdakilerden hangisi söylenemez?**

A) Okuyanları ikna etmek için yazılmıştır.

B) Terim anlamlı sözcükler kullanılmıştır.

C) Nesnel ifadelere yer verilmiştir.

D) Sayısal verilerden yararlanılmıştır.

4. Mutlaka ismini bir şekilde duymuşsunuzdur bu kitabın. Çoğu kişinin okuduğunu düşünsem de benim gibi geciktirenler de olmuştur eminim. En yüzeysel açıklamayla başlayacağım yorumuma. Kitap kapağı… Tamam! Hiçbir kitap kapağıyla yargılanmaz, bunu ben de biliyorum. Fakat kitabın içeriğini ve tonunu bu kadar güzel ele almış bir kitap kapağı görmedim ben. Başkahramanımızın görmek istediği ve yaşamadan özlem duyduğu her şeyi barındırıyor içinde. Kapaktaki turuncu rengin kitabın duygularını tercüme ettiğini düşünüyorum.

Bu parçaya göre, eleştirmenin kitabı beğenmesinin nedeni aşağıdakilerden hangisinde verilmiştir?

A) Başkahramanın kapakta yer alması

B) Kapakta yer alan açıklama

C) Kapağının tasarımı

D) Kitabın içeriği

5. “Başarılı olmak için çalışıyor.” cümlesinde yargının bir amaçla gerçekleştiği ifade edilmektedir.

“Başarılı olursa annesi çok sevinecek.” cümlesinde yargının gerçekleşmesinin koşulu yer almaktadır.

“Başarılı olduğu için takıma alındı.” cümlesinde yargının gerçekleşme nedeni bulunmaktadır.

Buna göre,

I. Eğer hava sıcaklığı çok artar ve örneğin bir gölün ortalama sıcaklığı çok yükselirse balıklar boğulabilir.

II. O gün hava çok sıcak olduğu için evimizin çalışma masasını balkona çıkarıp ders çalışmaya başladım.

III. Dünyaca ünlü bir reklam ajansı plastik atık tehlikesine dikkat çekmek için önemli bir kampanya başlattı.

numaralanmış cümlelerin anlam özellikleri hangi seçenekte doğru olarak verilmiştir?

	I.	II.	III.
A)	Amaç	Koşul	Neden
B)	Koşul	Neden	Amaç
C)	Neden	Amaç	Koşul
D)	Koşul	Amaç	Neden

6.



Yukarıdaki metinlerde sığır balıkçıl ve büyük akbalıkçıl kuşları ile ilgili bilgiler verilmiştir.

Aşağıdakilerden hangisi bu kuşlarla ilgili her iki metinde verilenlerden biri <u>değildir</u>?

A) Boylarının uzunluğu
B) Gagalarının şekli
C) Nerelerde bulundukları
D) Vücut renkleri

7. Ben; kendi kitaplarımda sadece kelimeleri kullanıyorum, resimleri değil. Görsel hikâye anlatıcılarına ve onların herhangi bir dil kullanmadan hikâyelerini aktarma yeteneklerine imrenerek bakıyorum. Çizgi filmciler, ressamlar, film yapımcıları... İnsanların beğenilerine, beyinlerinin mantık kısmını atlayıp hayal güçlerine seslenerek, daha doğrudan hitap ediyorlar.

Bu metinde altı çizili söz grubunun cümleye kattığı anlam aşağıdakilerin hangisinde vardır?

A) Kendime örnek aldığım birkaç kişi var, onların kitaplarını okuyorum.

B) Onun okuduğu kitap çok güzel, ben de kitabın aynısını istiyorum.

C) Kendi hiç çabalamaz ama hep başkalarının başarılarını kıskanırdı.

D) İnsan azimli olursa bu hayatta başaramayacağı hiçbir şey yoktur.

8. Deyimler bir durumu daha etkili anlatmak için kullanılır. Hiçbir şeyin değişmemiş, her şeyin önceden bulunduğu durumda olduğu anlatılmak istendiğinde eski tas eski hamam; kendini tutamayarak kahkahayla gülmeye başlandığında ağzı kulaklarına varmak; heyecanla, merakla beklenildiğini anlatırken dokuz doğurmak; farkında olmadan kötü bir sonuca yol açacak söz söylendiğinde çam devirmek deyimlerini kullanırız.

Bu metindeki deyimlerin hangisinin açıklaması yanlış verilmiştir?

A) Eski tas eski hamam

B) Ağzı kulaklarına varmak

C) Dokuz doğurmak

D) Çam devirmek

9. 7-A sınıfındaki beş öğrenci noktalama işaretleri ile ilgili bazı kuralları defterlerine yazmışlardır.

Eşref: Dizeler yan yana yazıldığında aralarına konur.

Gökdeniz: Eş görevli kelime ve kelime gruplarının arasına konur.

Sencer: Adres yazarken apartman numarası ile daire numarası arasına konur.

Alperen: Edebi eserlerde konuşma bölümünden önceki ifadelerin sonuna konur.

Mete: Kaba sayıldığı için veya başka bir sebepten dolayı açık açık yazılmak istenmeyen kelimelerin ve bölümlerin yerine konur.

Buna göre, aynı noktalama işaretinin farklı görevlerini defterine yazan öğrenciler aşağıdakilerin hangisinde doğru verilmiştir?

A) Eşref-Sencer

B) Sencer-Alperen

C) Alperen-Mete

D) Eşref-Gökdeniz

10. Çocuklar başardıkça özgüvenleri gelişir ve daha zor bir hedef belirleyerek bunu da başarıp başaramayacaklarını ..... isterler. Hedef belirlerken, hedefin çocuğun kişisel özelliklerine uygun olmasına dikkat etmeli ve çocuğa çıtayı ne kadar ..... konusunda ebeveynler yardımcı olmalıdır. Bir sonraki hedefi fazla yüksek olursa, büyük bir olasılıkla başaramazlar ve özgüvenleri azalır. Örneğin sizi memnun etmek için koyduğu hedefte başarısızlığa uğrarsa, sizin beklentilerinizi ve başarısızlığı ilişkilendirerek .....duyabilir. Utanma, yeni hedefler koyarak başarmaya çalışmasını engeller.

Bu metinde boş bırakılan yerlere sırasıyla aşağıdakilerin hangisinde verilenler getirilmelidir?

A) Görmek-artırabileceği- utanç

B) Bakmak- aşabileceği-suçluluk

C) Denemek- yükseltebileceği-utanç

D) Sınamak- yükseltilebileceği- gurur

11.



Göbeklitepe Arkeolojik Alanı

Göbeklitepe ile ilgili bahsi geçen bilimsel veriler, arkeoloji çalışmalarında Neolitik Dönem'le ilgili kuramsal çerçevenin ve tarihlendirmelerin yeniden değerlendirilmesini gerektiren önemli bilgiler vermektedir. Göbeklitepe'nin konumu, boyutları, tarihlendirilmesi ve yapılarının anıtsallığı ile Neolitik Dönem için ünik bir kutsal alan olduğu anlaşılmıştır. Alan, 12.000 yıl boyunca doğal çevresi içinde dokunulmadan kaldığından önemli arkeolojik buluntu vermektedir.



Bergama Çok Katmanlı Kültürel Peyzaj Alanı

Bergama Çok Katmanlı Kültürel Peyzaj Alanı, Pergamon (çok katmanlı kent), Kibele Kutsal Alanı, İlyas Tepe, Yığma Tepe, İkili, Tavşan Tepe, X Tepe, A Tepe ve Maltepe Tümülüsleri olmak üzere dokuz bileşenden oluşmaktadır.

Kale Dağı'nın tepesindeki antik Pergamon yerleşimi anıtsal mimarisiyle Helenistik dönem şehir planlamacılığının en iyi örneğini temsil etmektedir. Athena Tapınağı, Trajan Tapınağı, Helenistik Dönem'in en dik tiyatro yapısı, kütüphane, Heroon, Zeus Sunağı, Dionysos Tapınağı, agora ve gymnasion yapıları bu planlama sisteminin ve dönem mimarisinin en seçkin örnekleri olarak karşımıza çıkmaktadır.



Göreme Milli Parkı ve Kapadokya (Nevşehir)

Kuzeyde Kızılırmak, doğuda Yeşilhisar, güneyde Hasan ve Melendiz dağları, batıda Aksaray ve kuzeybatıda Kırşehir ile sınırlanan Kapadokya Bölgesi Kalkolitik Dönem'den beri devamlı yerleşim alanı olmuştur. Alanın en önemli özelliği, Erciyes Dağı ve Hasan Dağı tüflerinin, rüzgar ve su aşındırması sonucunda oluşan olağanüstü kaya şekilleri ve kışın ılık, yazın serin olan ve bu nedenle her mevsim için uygun iç iklim koşulları taşıyan kayaya oyma mekanlardır.

Aşağıdaki Dünya Miras Listesi'ne alınma ölçütlerinden hangisi bu varlıklardan herhangi biriyle ilişkilendirilemez?

A) Yaşayan veya yok olan bir kültür geleneğinin veya uygarlığın istisnai, ender rastlanan bir temsilcisi olmalı.

B) Yaşamın kaydı, yer şekillerinin oluşumunda devam eden önemli jeolojik süreçler veya önemli jeomorfik veya fizyografik özellikler dahil dünya tarihinin önemli aşamalarını temsil eden istisnai örnekler olmalı.

C) İnsanlık tarihinin önemli bir aşamasını veya aşamalarını gösteren bir yapı tipinin, mimari veya teknolojik bütünün veya peyzajın istisnai bir örneği olmalı.

D) Bilim veya koruma açısından istisnai evrensel değere sahip tehlike altındaki türleri içeren yerler de dahil, biyolojik çeşitliliğin yerinde korunması için en önemli ve dikkat çeken doğal habitatları içermeli.

12. **Aşağıdakilerden hangisinde sözü söyleyenin, eylemin yapılışına tanık olmadığı anlaşılmaktadır?**

A) Benim oğlum her akşam yatmadan önce kitap okur.

B) Yeni mahallelerinde güler yüzle karşılandılar.

C) Çantasını nereye koyduysa bir türlü bulamıyordu.

D) Dün sabah da kahvaltı yapmadan çekip gitmiş.

13. Nesrin, Serap, Hasan, Dilek ve Kamil adlı beş öğrenci ile ilgili bilinenler şunlardır:

- Öğrencilerden üçü 7/A sınıfında, ikisi 7/B sınıfındadır.
- Nesrin ve Kamil'in sınıfları aynıdır.
- Hasan ve Dilek'in sınıfları farklıdır.

Buna göre aşağıdakilerden hangisi kesinlikle doğrudur?

A) Kamil 7/B sınıfındadır.

B) Dilek 7/A sınıfındadır.

C) Hasan 7/A sınıfındadır.

D) Serap 7/B sınıfındadır.

14. "Çocuklar için Sanat" kitabı; çocuğun görsel yaşamına zenginlik katabilecek resim, fotoğraf, heykel gibi farklı alanlardan sanat eserleriyle tanışmasını sağlayan alışılmışın dışında bir kitap. Alışılmışın dışında çünkü klasik resim sanatından örneklerin yanı sıra çağdaş sanattan geniş çeşitlilikte örneklere de yer veriyor. Böylece Mona Lisa ile canlı heykeller Gilbert ve George'u, Bridget Riley'nin optik yanılsama yaratan hareketli resimleriyle Jeff Koons'un çiçeklerden yaptığı 11,5 metre yükseklikteki köpek heykelini, Andy Warhol'un Marilyn Monroe portreleriyle Giacometti'in çubuk figürlerini aynı kitapta bulabiliyorsunuz.

Bu metinde sözü edilen kitabın alışılmışın dışında olarak değerlendirilmesinin sebebi nedir?

A) Çocuklar için yazılmış bir sanat kitabı olması

B) Görselliğe ağırlık veren bir eser olması

C) İçinde birçok farklı alanı barındırması

D) Yabancı sanatçıların eserlerine yer vermesi

15. (I)Okumak, insan için bir zevk, bir eğlence olduğu kadar hiç kuşkusuz eğitici bir eylemdir de. (II)Bilgilerimizi artırarak, aklımızı işleterek düşüncemizi genişleten bir eylemdir. (III)Okuyan insan olayları değerlendirmede, çevresini tanımada, yaşamın tadını çıkarmada okumayandan üstün durumdadır. (IV) Çünkü okumayan insanın zihinsel aktiviteleri hiç bir zaman okuyan kadar etkin ve üstün olamaz. (V)Bir çok insan okumanın kazandırdığı bu üstünlüklerin farkında olmadığı için okumaya dudak bükebiliyoruz ne yazık ki.

Bu parçada numaralanmış cümlelerin hangilerinde bir yazım yanlışı yapılmıştır?

A) I ve II.

B) II ve III.

C) III ve IV.

D) IV ve V.

16.

- Pisagor sayıların babası olarak anılmaktadır.
- Pisagor matematiğe birçok katkıda bulunmuştur.
- Bugün oynadığımız bilgisayar oyunlarında sürekli hesaplanan Pisagor bağlantısını bulmuştur.

Bu üç cümlede ifade edilenlerin anlamca doğru bir biçimde birleştirilmiş hâli aşağıdakilerden hangisidir?

A) Matematiğe birçok katkıda bulunan ve sayıların babası olarak anılan Pisagor yine bugün oynadığımız bilgisayar oyunlarında sürekli hesaplanan Pisagor bağlantısını bulmuştur.

B) Sayıların babası olarak anılan Pisagor bugün oynadığımız bilgisayar oyunlarında sürekli hesaplanan Pisagor bağlantısını bulmuş ve matematiğe birçok katkıda bulunmuştur.

C) Bugün oynadığımız bilgisayar oyunlarında sürekli hesaplanan Pisagor bağlantısını bulan Pisagor, sayıların babası olarak anılmıştır ve matematiğe birçok katkıda bulunmuştur.

D) Matematiğe birçok katkıda bulunan Pisagor bugün oynadığımız bilgisayar oyunlarında sürekli hesaplanan Pisagor bağlantısını bulmuştur ve sayıların babası olarak anılmaktadır.

17. ● İnsanlarla iletişim kurarken önce onları dinle sonra konuş.
◔ Bu hafta verilen ödevi geciktirmeden yapalım.
⬣ Bazı durumlarda insan geri adım atmayı bilmelidir.
▲ Yoldan geçen insanlar mutlaka bu çeşmeden su içer.

Yukarıdaki cümlelerin yüklemindeki fiillerin kipleri "●, ◔, ⬣, ▲" sembolleriyle gösterilmiştir.

Buna göre "Ben sürekli kütüphanede kitap okurum." **cümlesindeki fiilin kipi hangi sembolle gösterilir?**

A) ● B) ◔ C) ⬣ D) ▲

18. İnsanlar hayatlarını devam ettirebilmek için yeme, içme, barınma, güvenlik, giyinme gibi temel ihtiyaçlarını ve isteklerini karşılamak amacıyla çaba gösterirler. Beslenme, barınma, korunma gibi temel ihtiyaçların varlığı ekonomik faaliyetlerin çeşitlenmesini ve gelişmesini sağlamıştır. Ekonomik faaliyetler hiçbir zaman tek başına ele alınamaz. Örneğin, tüketim için üretim, üretim için de tüketim gereklidir. Üretim, tüketime olan talep ile değişim göstermektedir. Üretim ile tüketim arasındaki köprüyü dağıtım kurar. Dağıtımdaki teknolojik gelişmeler, üretimi ve tüketimi karşılıklı olarak etkiler. Ekonomik faaliyet türleri üretim, dağıtım (pazarlama) ve tüketim olmak üzere üç gruba ayrılır.

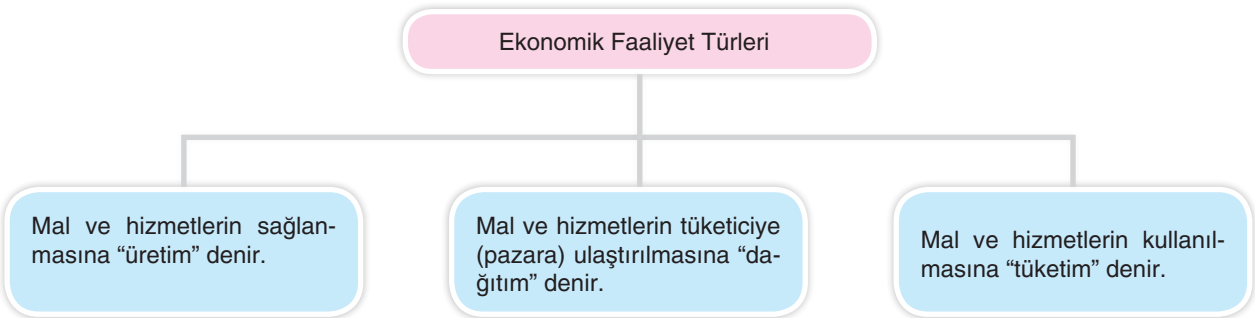

Aşağıda bazı ekonomik faaliyetler verilmiştir.

I. Bir işçinin tekstil atölyesinde pantolon imal etmesi
II. Bir doktorun her gün bakkaldan ekmek alması
III. Bir öğretmenin teknoloji mağazasından bilgisayar edinmesi
IV. Bir şoförün fabrikadan aldığı mobilyaları mağazalara taşıması
V. Bir çiftçinin tarlasında buğday yetiştirmesi
VI. Gazete bayisinin her sabah abonelere gazete ulaştırması

Buna göre numaralanmış ekonomik faaliyetlerin türü aşağıdaki seçeneklerin hangisinde doğru olarak verilmiştir?

	Üretim	Tüketim	Dağıtım
A)	I, VI	III, V	II, IV
B)	I, V	II, III	IV, VI
C)	I, V	III, IV	II, VI
D)	IV, V	II, III	I, VI

19. Aşağıdaki grafikte Hüseyin'in haftanın beş gününde okuduğu sayfa sayısı verilmiştir.

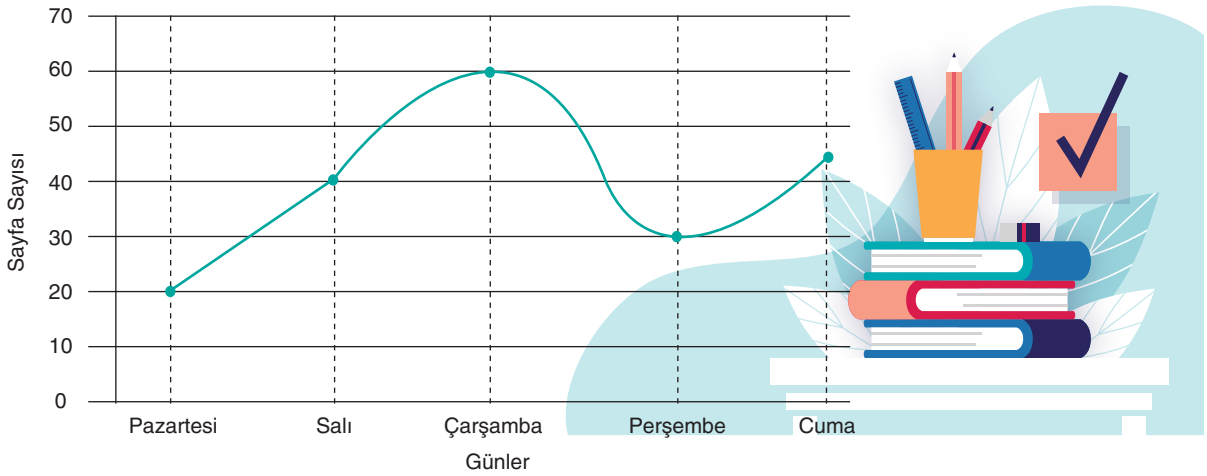

Bu verilerin sütun grafiğe aktarılmış hâli aşağıdakilerden hangisidir?

A)

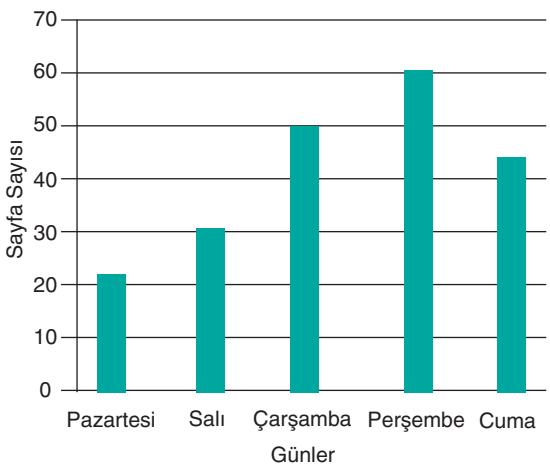

B)

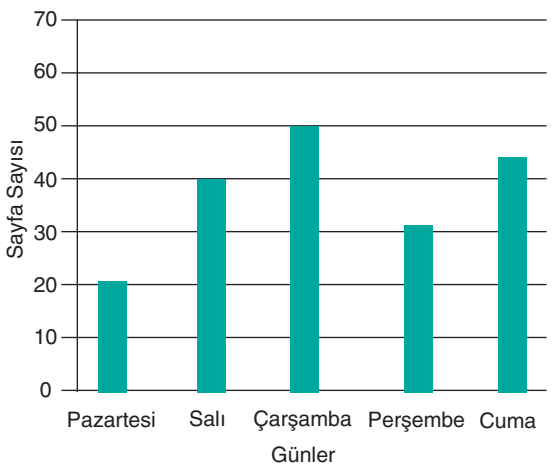

C)

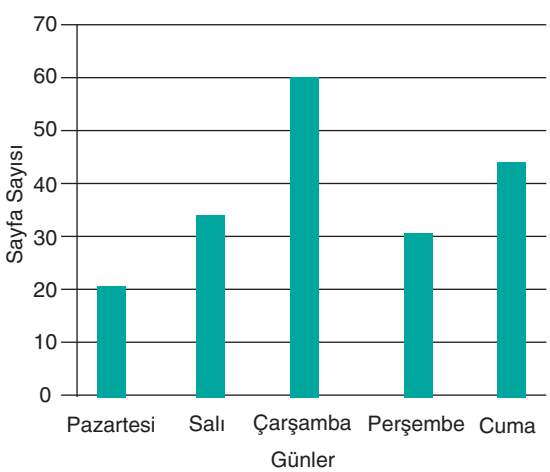

D)

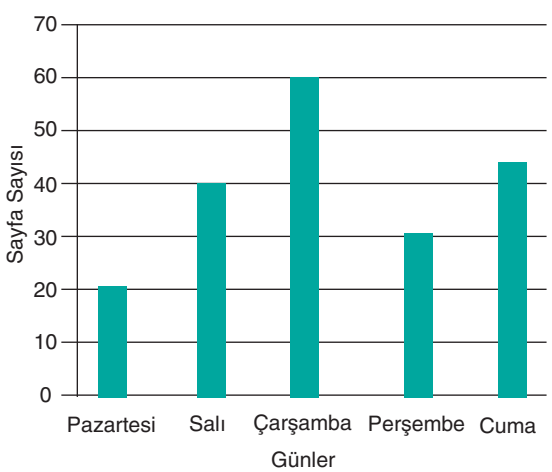

Fotoğrafı İncele, Bulmacayı Çöz!



Aşağıda, karelere bölünmüş bir fotoğraf, bu fotoğraftan alınmış küçük kareler ve bir harf tablosu vardır.

HARF TABLOSU

B	Ü	A	I	K	T	O	F
O	A	Ü	U	T	K	Y	T
E	İ	R	B	P	R	Z	O
K	C	Y	I	T	Z	N	I
O	Z	A	Ü	K	B	Ü	A
A	L	U	S	Ü	Y	K	R

Bulmacayı çözmek için aşağıdaki küçük kareleri büyük fotoğrafta bulmanız gerekiyor. Bir kareyi büyük fotoğrafta bulduktan sonra harf tablosunda bu kareyle aynı yerde bulunan harfi belirleyin. Bu harfi o karenin altındaki boş yere yazın. Bulmacayı çözdüğünüzde fotoğrafın çekildiği yeri bulacaksınız.

ÇÖZÜM





20. **Buna göre fotoğrafın çekildiği yer aşağıdakilerden hangisidir?**

A) BORNOVA B) BOYABAT C) BOZÜYÜK D) BOZKURT

Yeni Neslin
Ortak Aklı

Daha Fazla
Bilgi İçin

ORTAK AKIL

12

En Güzel Yarınlar İçin

ÖZGÜN DENEME



8. Sınıf
Ortak Akıl LGS Türkçe Denememiz

Arkadaşım Türkçe
@arkadasimturkce
www.eyuphayta.com

ISBN 978-605-80718-1-0
9 786058 071810

Hayta Akademi